Mardi 12 mai

0 Graduer une droite

Calcul mental

.....

Activités de recherche

éo doit placer 0 et 800 sur cette droite graduée.

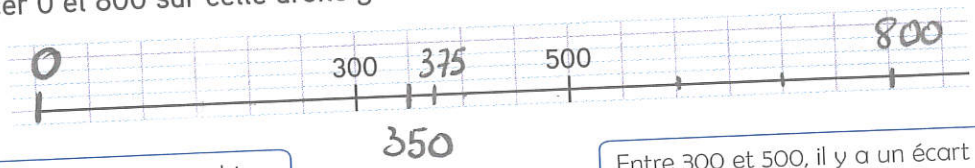

Je ne sais pas à combien correspond un carreau.

Entre 300 et 500, il y a un écart de 200 pour 4 carreaux.

lace 0 et 800 sur cette droite graduée.

lace 350, puis 375 sur cette droite graduée.

S'exercer

Dans chaque exercice, cherche d'abord à quelle valeur correspond un carreau.

Sur cette droite graduée :

a **place** 5 et 2.

b **place** 1 et 7.



Sur cette droite graduée :

a **place** 520 et 490.

b **place** 575 et 505.

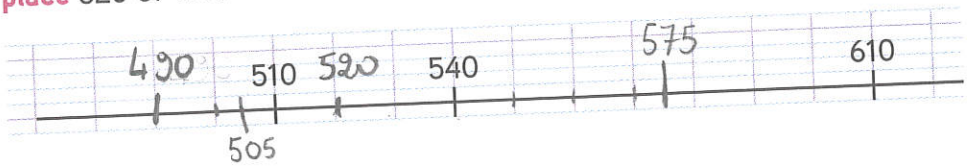

Résoudre

3 **Problème guidé**

Le jeton de Carla est sur la graduation 40. Le jeton d'Olivia est 4 carreaux devant celui de Carla. Le jeton de Yazid est 3 carreaux derrière celui de Carla.
Sur quelles graduations sont les jetons d'Olivia et de Yazid ?

Utilise l'écart entre 40 et 70 pour trouver la valeur qui correspond à un carreau.

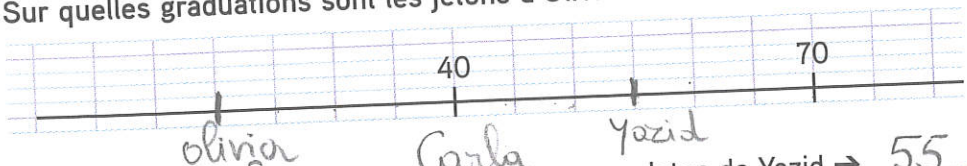

Jeton d'Olivia → 20

Jeton de Yazid → 55

L'essentiel

Entre 200 et 300, il y a 5 carreaux.